Демоверсия контрольной работы по математике 5 класс (1 полугодие)

1) Каким числом нужно заменить букву **А**, чтобы получилось верное равенство?

$$\mathbf{A} : 31 = 26$$

Ответ:	

2) Принтер печатает 72 страницы за 3 минуты. За сколько минут этот принтер напечатает 120 страниц?
Запишите решение и ответ.

Решение:	
Ответ:	

3) Найдите значение выражения $4800 : 24 - 4 \cdot (81 - 63) : 2$.
Запишите решение и ответ.

Решение:	
Ответ:	

4) На диаграмме представлены площади нескольких озёр.
Ответьте на вопросы.

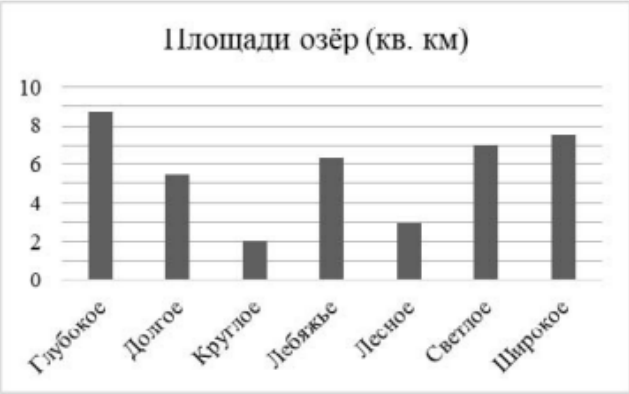

1) Какое из этих озер занимает пятое место по площади?

Ответ:	

2) На сколько квадратных километров площадь озера Светлое больше площади озера Лесное?

Ответ:	

5) Из одинаковых кубиков сложили параллелепипед (рис. 1). После этого сверху вытащили ровно один кубик (рис. 2).

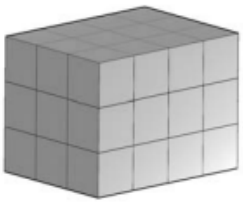

Рис. 1

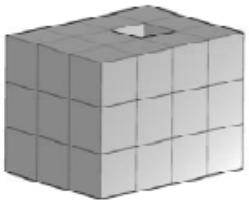

Рис. 2

Сколько кубиков осталось в фигуре, изображённой на рис. 2?

Ответ:	